RALLYE MATH SAVOIE

Groupe :

RALLYE MATHEMATIQUES CE1 2026 - 2027

Entraînement 2/6

1

Le robot aspirateur doit aspirer les poussières et ensuite aller à sa station de charge .
En fin de programme, il devra s'allumer en vert pour signaler la fin de son travail.
(L'avant du robot est caractérisé par ses deux antennes)

Quel programme lui permettra de réaliser son travail ?

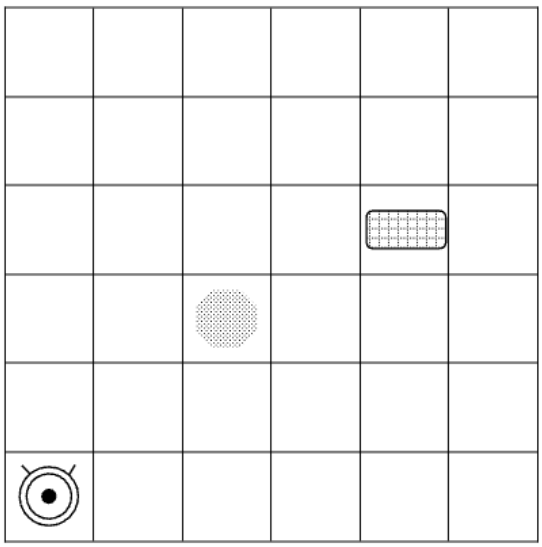

↑	avance d'une case
↓	recule d'une case
↰	pivote à gauche en restant dans sa case
↱	pivote à droite en restant dans sa case
V	s'allume en vert
R	s'allume en rouge

Programme A



Programme B

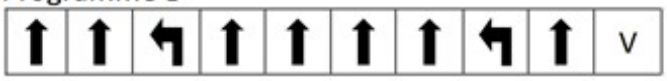

Programme C

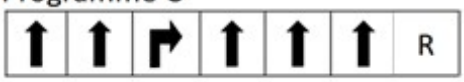

Programme D

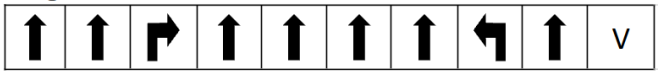

Programme E

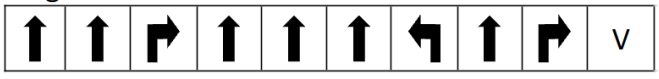

Réponse :

Groupe :

2

Mon chien est plus lourd que mon chat.
Mon chat est moins lourd que mon cheval.
Mon cheval est moins lourd que ma vache.
Mon chien est moins lourd que mon cheval.

Lequel de mes animaux est le plus lourd ?

Réponse :

3

🍎 + 🍎 + 🍎 = 21

🍎 + 🍌 + 🍌 = 25

🍌 + 🍒 + 🍒 = 19

Calculez : 🍎 + 🍌 + 🍒 = ?

Réponse :

Cette fiche réponse est à distribuer à chacun des groupes pour la phase de mise en commun durant les 10 dernières minutes. (Voir règlement général)

REPONSES

GROUPE :

……

Entourez la réponse pour chaque problème

Problème 1 :				
A) Programme A	B) Programme B	C) Programme C	D) Programme D	E) Programme E
Problème 2 :				
A) Ma vache	B) Mon chat	C) Mon cheval	D) Mon chien	E) Autre réponse
Problème 3 :				
A) 65	B) 25	C) 21	D) 46	E) Autre réponse

REPONSES

GROUPE :

……

Entourez la réponse pour chaque problème

Problème 1 :				
A) Programme A	B) Programme B	C) Programme C	D) Programme D	E) Programme E
Problème 2 :				
A) Ma vache	B) Mon chat	C) Mon cheval	D) Mon chien	E) Autre réponse
Problème 3 :				
A) 65	B) 25	C) 21	D) 46	E) Autre réponse

REPONSES ATTENDUES

Problème 1 :				
A) Programme A	B) Programme B	C) Programme C	D) Programme D	E) Programme E
Problème 2 :				
A) Ma vache	B) Mon chat	C) Mon cheval	D) Mon chien	E) Autre réponse
Problème 3 :				
A) 65	B) 25	C) 21	D) 46	E) Autre réponse