RALLYE MATH SAVOIE

Fiche synthèse classe des scores pour la saisie des réponses

MANCHE **D'ENTRAINEMENT**

Indiquez ci-dessous, pour chaque groupe, les réponses (A, B, C, D ou E) aux problèmes.

Fiche à conserver pour toute la durée de l'entraînement.

RAPPEL :
La confrontation collective des différentes procédures est à privilégier pour aider les élèves à construire des démarches.

Les réponses sont à saisir en ligne **soit au fur et à mesure soit à la fin des 6 entraînements.**

	Entraînement 1			Entraînement 2			Entraînement 3			Entraînement 4			Entraînement 5			Entraînement 6		
	Pb 1	Pb 2	Pb 3	Pb 1	Pb 2	Pb 3	Pb 1	Pb 2	Pb 3	Pb 1	Pb 2	Pb 3	Pb 1	Pb 2	Pb 3	Pb 1	Pb 2	Pb 3
Gr 1																		
Gr 2																		
Gr 3																		
Gr 4																		
Gr 5																		
Gr 6																		
Gr 7																		
Gr 8																		
Gr 9																		
Gr 10																		

RALLYE MATH SAVOIE

Fiche synthèse par groupe des scores pour la saisie des réponses

MANCHE D'ENTRAINEMENT

GROUPE :

.....

Indiquez ci-dessous votre réponse (A, B, C, D ou E) aux problèmes.
Gardez bien votre fiche jusqu'à la fin des semaines d'entraînement !

RAPPEL :
Les réponses sont à saisir en ligne soit au fur et à mesure soit à la fin des 6 entraînements.

	Entraînement 1			Entraînement 2			Entraînement 3			Entraînement 4			Entraînement 5			Entraînement 6		
	Pb 1	Pb 2	Pb 3	Pb 1	Pb 2	Pb 3	Pb 1	Pb 2	Pb 3	Pb 1	Pb 2	Pb 3	Pb 1	Pb 2	Pb 3	Pb 1	Pb 2	Pb 3
Gr																		

RALLYE MATH SAVOIE

Fiche synthèse par groupe des scores pour la saisie des réponses

MANCHE D'ENTRAINEMENT

GROUPE :

.....

Indiquez ci-dessous votre réponse (A, B, C, D ou E) aux problèmes.
Gardez bien votre fiche jusqu'à la fin des semaines d'entraînement !

RAPPEL :
Les réponses sont à saisir en ligne soit au fur et à mesure soit à la fin des 6 entraînements.

	Entraînement 1			Entraînement 2			Entraînement 3			Entraînement 4			Entraînement 5			Entraînement 6		
	Pb 1	Pb 2	Pb 3	Pb 1	Pb 2	Pb 3	Pb 1	Pb 2	Pb 3	Pb 1	Pb 2	Pb 3	Pb 1	Pb 2	Pb 3	Pb 1	Pb 2	Pb 3
Gr																		

RALLYE MATH SAVOIE

Groupe :

RALLYE MATHEMATIQUES CE2 2026 - 2027

Entraînement 1/6

1

Lina a 48 billes. Elle a 7 billes de plus que Tom.
Combien Tom a-t-il de billes ?

Réponse :

2

Un pirate a caché son trésor dans un coffre. Le code du coffre est un nombre composé de 3 chiffres avec :

- 4 dizaines
- 2 unités
- 3 centaines

Quel est le code de ce coffre ?

Réponse :

3

MATERIEL EN ANNEXE

Sur un géoplan carré 5×5 :

- Placez le point A en bas à gauche.
- Avancez de 3 points vers la droite pour placer B.
- Repartez de A et montez de 2 points pour placer C.
- Reliez A à B, puis B à C, puis C à A.

Quelle figure avez-vous construite ?

Réponse :

ANNEXE

3 Pour réaliser l'exercice n°3, les élèves peuvent utiliser des géoplans, l'application en ligne **geobard** (tablette ou ordinateur) ou les feuilles pointées ci-dessous.

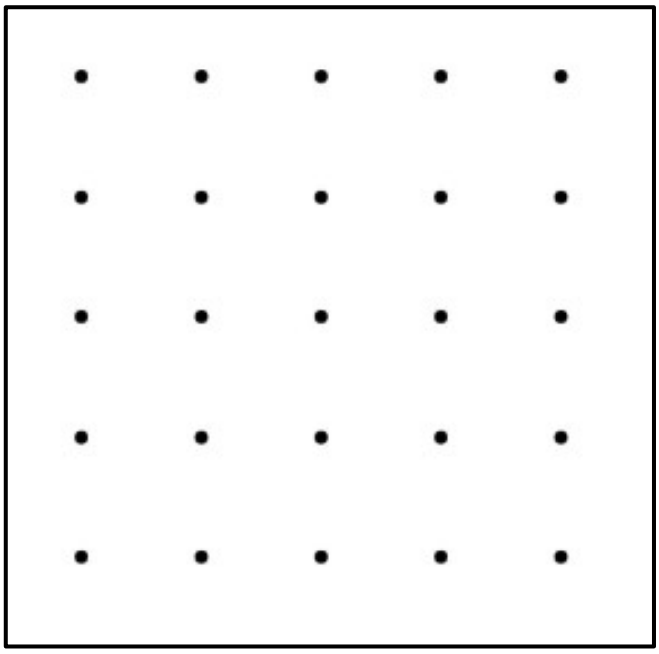







Cette fiche réponse est à distribuer à chacun des groupes pour la phase de mise en commun durant les 10 dernières minutes. (Voir règlement général)

REPONSES

GROUPE :

……..

Entourez la réponse pour chaque problème

Problème 1 :				
A) 55	B) 41	C) 48	D) 43	E) 40
Problème 2 :				
A) 342	B) 243	C) 423	D) 432	E) 324
Problème 3 :				
A) 	B) 	C) 	D) 	E) 

REPONSES

GROUPE :

……..

Entourez la réponse pour chaque problème

Problème 1 :				
A) 55	B) 41	C) 48	D) 43	E) 40
Problème 2 :				
A) 342	B) 243	C) 423	D) 432	E) 324
Problème 3 :				
A) 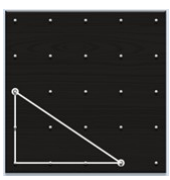	B) 	C) 	D) 	E) 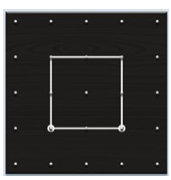

REPONSES ATTENDUES

Problème 1 :				
A) 55	B) 41	C) 48	D) 43	E) 40
Problème 2 :				
A) 342	B) 243	C) 423	D) 432	E) 324
Problème 3 :				
A) 	B) 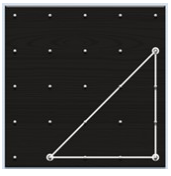	C) 	D) 	E) 