RALLYE MATH SAVOIE

Fiche synthèse classe des scores pour la saisie des réponses

MANCHE **D'ENTRAINEMENT**

Indiquez ci-dessous, pour chaque groupe, les réponses (A, B, C, D ou E) aux problèmes.

Fiche à conserver pour toute la durée de l'entraînement.

RAPPEL :
La confrontation collective des différentes procédures est à privilégier pour aider les élèves à construire des démarches.

Les réponses sont à saisir en ligne **soit au fur et à mesure soit à la fin des 6 entraînements.**

	Entraînement 1			Entraînement 2			Entraînement 3			Entraînement 4			Entraînement 5			Entraînement 6		
	Pb 1	Pb 2	Pb 3	Pb 1	Pb 2	Pb 3	Pb 1	Pb 2	Pb 3	Pb 1	Pb 2	Pb 3	Pb 1	Pb 2	Pb 3	Pb 1	Pb 2	Pb 3
Gr 1																		
Gr 2																		
Gr 3																		
Gr 4																		
Gr 5																		
Gr 6																		
Gr 7																		
Gr 8																		
Gr 9																		
Gr 10																		

RALLYE MATH SAVOIE

Fiche synthèse par groupe des scores pour la saisie des réponses

MANCHE D'ENTRAINEMENT

GROUPE :

.....

Indiquez ci-dessous, votre réponse (A, B, C, D ou E) aux problèmes
Gardez bien votre fiche jusqu'à la fin des semaines d'entraînement !

RAPPEL :
Les réponses sont à saisir en ligne soit au fur et à mesure soit à la fin des 6 entraînements.

	Entraînement 1			Entraînement 2			Entraînement 3			Entraînement 4			Entraînement 5			Entraînement 6		
	Pb 1	Pb 2	Pb 3	Pb 1	Pb 2	Pb 3	Pb 1	Pb 2	Pb 3	Pb 1	Pb 2	Pb 3	Pb 1	Pb 2	Pb 3	Pb 1	Pb 2	Pb 3
Gr																		

RALLYE MATH SAVOIE

Fiche synthèse par groupe des scores pour la saisie des réponses

MANCHE D'ENTRAINEMENT

GROUPE :

.....

Indiquez ci-dessous, votre réponse (A, B, C, D ou E) aux problèmes
Gardez bien votre fiche jusqu'à la fin des semaines d'entraînement !

RAPPEL :
Les réponses sont à saisir en ligne soit au fur et à mesure soit à la fin des 6 entraînements.

	Entraînement 1			Entraînement 2			Entraînement 3			Entraînement 4			Entraînement 5			Entraînement 6		
	Pb 1	Pb 2	Pb 3	Pb 1	Pb 2	Pb 3	Pb 1	Pb 2	Pb 3	Pb 1	Pb 2	Pb 3	Pb 1	Pb 2	Pb 3	Pb 1	Pb 2	Pb 3
Gr																		

RALLYE MATH SAVOIE

Groupe :

RALLYE MATHEMATIQUES CM1 2026 - 2027

Entraînement 1/6

1

Un magasin reçoit 72,5 kg de farine le matin.
A la fin de la journée, il lui reste 28,5 kg.

Quelle masse de farine a été vendue ?

Réponse :

2

Bloop l'extraterrestre a reçu une livraison de cristaux d'énergie dans des coffrets.
3 coffrets sont blancs et contiennent 4 cristaux chacun.
Les coffrets noirs contiennent 5 cristaux chacun.
Il y a 22 cristaux en tout.
Combien de coffrets noirs Bloop a-t-elle reçus ?



Réponse :

3

MATERIEL EN ANNEXE

Sur un géoplan carré 5×5 :

- Placez un point A en bas à gauche.
- Avancez de 3 points vers la droite pour placer B.
- Montez de 2 points pour placer C au-dessus de A.
- Reliez A à B, puis B à C, puis C à A.

Quelle figure avez-vous construite ?

Réponse :

ANNEXE

3 Pour réaliser l'exercice n°3, les élèves peuvent utiliser des géoplans, l'application en ligne **geobard** (tablette ou ordinateur) ou les feuilles pointées ci-dessous.









Cette fiche réponse est à distribuer à chacun des groupes pour la phase de mise en commun durant les 10 dernières minutes. (Voir règlement général)

REPONSES

GROUPE :

……

Entourez la réponse pour chaque problème

Problème 1 :				
A) 44,5 kg	B) 43,5 kg	C) 44 kg	D) 440 kg	E) Autre réponse
Problème 2 :				
A) 1	B) 5	C) 2	D) 10	E) Autre réponse
Problème 3 :				
A) 	B) 	C) 	D) 	E) 

REPONSES

GROUPE :

……

Entourez la réponse pour chaque problème

Problème 1 :				
A) 44,5	B) 43,5	C) 44	D) 440	E) Autre réponse
Problème 2 :				
A) 1	B) 5	C) 2	D) 10	E) Autre réponse
Problème 3 :				
A) 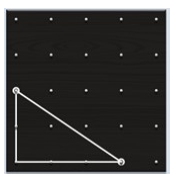	B) 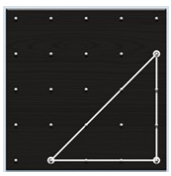	C) 	D) 	E) 

REPONSES ATTENDUES

Problème 1 :				
A) 44,5	B) 43,5	C) 44	D) 440	E) Autre réponse
Problème 2 :				
A) 1	B) 5	C) 2	D) 10	E) Autre réponse
Problème 3 :				
A) 	B) 	C) 	D) 	E) 