RALLYE MATH SAVOIE

Groupe :

RALLYE MATHEMATIQUES CM1 2026 - 2027

Entraînement 2/6

1

Ce matin, Goupil le renard a attrapé 2 rongeurs et 4 insectes.
Le menu complet d'un repas aujourd'hui est constitué d'un rongeur et d'un insecte.

Combien de menus différents peut-il constituer ?



Réponse :

2

Dans l'école des apprentis sorciers, les élèves doivent préparer une potion d'invisibilité très puissante.

Les élèves obtiendront la recette s'ils complètent une suite de nombres qui répond à une règle.

Le maître des potions leur donne les premiers nombres.

Trouvez le nombre manquant.



Réponse :

Groupe :

3

Bienvenue dans le célèbre jeu de la roue de la chance !
Le principe est assez simple : tournez la roue et si vous tombez sur une case noire, c'est gagné !

Avec quelle roue de la chance est-il peu probable de gagner ?

Roue A



Roue B

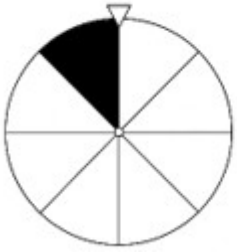

Roue C

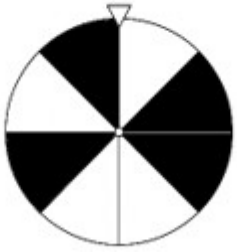

Roue D



Roue E



Réponse :

Cette fiche réponse est à distribuer à chacun des groupes pour la phase de mise en commun durant les 10 dernières minutes. (Voir règlement général)

REPONSES

GROUPE :

……

Entourez la réponse pour chaque problème

Problème 1 :				
A) 15	B) 10	C) 12	D) 8	E) 20
Problème 2 :				
A) 27	B) 30	C) 36	D) 42	E) Autre réponse
Problème 3 :				
A) roue A	B) roue B	C) roue C	D) roue D	E) roue E

REPONSES

GROUPE :

……

Entourez la réponse pour chaque problème

Problème 1 :				
A) 15	B) 10	C) 12	D) 8	E) 20
Problème 2 :				
A) 27	B) 30	C) 36	D) 42	E) Autre réponse
Problème 3 :				
A) roue A	B) roue B	C) roue C	D) roue D	E) roue E

REPONSES ATTENDUES

Problème 1 :				
A) 15	B) 10	C) 12	D) 8	E) 20
Problème 2 :				
A) 27	B) 30	C) 36	D) 42	E) Autre réponse
Problème 3 :				
A) roue A	B) roue B	C) roue C	D) roue D	E) roue E