RALLYE MATH SAVOIE

Groupe :

Entraînement 2/6

RALLYE MATHEMATIQUES CM2 2026 - 2027

1

Voici les quatre vues d'un assemblage de cubes.
Quel assemblage correspond à ces vues ?

Vue de gauche

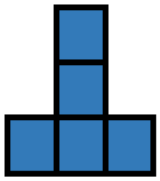

Vue de droite

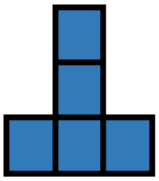

Vue de face

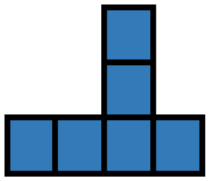

Vue du dessus

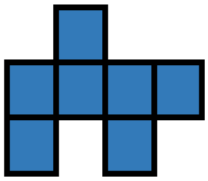

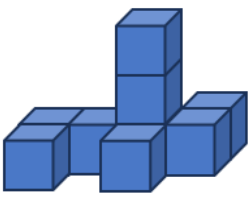

1

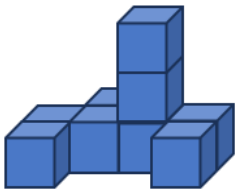

2

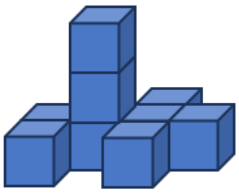

3

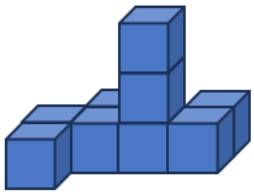

4

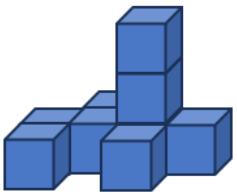

5

Réponse :

2

Dans l'école des apprentis sorciers, les élèves doivent préparer une potion d'invisibilité très puissante.

Les élèves obtiendront la recette s'ils complètent une suite de nombres qui répond à une règle.

Le maître des potions leur donne les premiers nombres.

Trouvez le nombre manquant.



Réponse :

Groupe :

3

On veut écrire les années comprises entre 2026 et 3000 avec les chiffres 2, 0, 6 et 7.

Chaque chiffre ne doit être utilisé qu'une seule fois.

Combien d'années différentes peut-on écrire ?

Réponse :

Cette fiche réponse est à distribuer à chacun des groupes pour la phase de mise en commun durant les 10 dernières minutes. (Voir règlement général)

REPONSES

GROUPE :

……

Entourez la réponse pour chaque problème

Problème 1 :				
A) 1	B) 2	C) 3	D) 4	E) 5
Problème 2 :				
A) 27	B) 30	C) 36	D) 42	E) Autre réponse
Problème 3 :				
A) 6	B) 8	C) 12	D) 24	E) Autre réponse

REPONSES

GROUPE :

……

Entourez la réponse pour chaque problème

Problème 1 :				
A) 1	B) 2	C) 3	D) 4	E) 5
Problème 2 :				
A) 27	B) 30	C) 36	D) 42	E) Autre réponse
Problème 3 :				
A) 6	B) 8	C) 12	D) 24	E) Autre réponse

REPONSES ATTENDUES

Problème 1 :				
A) 1	B) 2	C) 3	D) 4	E) 5
Problème 2 :				
A) 27	B) 30	C) 36	D) 42	E) Autre réponse
Problème 3 :				
A) 6	B) 8	C) 12	D) 24	E) Autre réponse